CONSÓRCIO INTERMUNICIPAL MULTISSETORIAL DO MÉDIO RIO PIRACICABA – CONSMEPI

PROCESSO SELETIVO 02/2026

CADERNO DE QUESTÕES

CARGO: DESENHISTA/PROJETISTA

INSTRUÇÕES AO CANDIDATO

1. A duração total da prova é de 3 (três) horas, já incluído o tempo destinado ao preenchimento da Folha de Respostas.
2. O candidato somente poderá iniciar a prova ou folhear o caderno de questões após autorização do fiscal de sala.
3. Antes de iniciar, verifique se o seu caderno contém 30 (trinta) questões objetivas, numeradas corretamente, e se todas as páginas estão completas e legíveis.
4. Cada questão apresenta quatro alternativas (A), (B), (C) e (D). Marque somente uma alternativa na Folha de Respostas.
5. Utilize caneta esferográfica de tinta azul ou preta. Rasuras, marcações múltiplas ou o uso de lápis implicam anulação da questão.
6. A Folha de Respostas é de inteira responsabilidade do candidato, não sendo fornecida substituição em caso de erro, rasura ou marcação indevida.
7. Confira seus dados pessoais na Folha de Respostas antes de iniciar a prova.
8. É proibido consultar qualquer material, comunicar-se com outros candidatos ou utilizar equipamentos eletrônicos, tais como celulares, fones de ouvido, relógios digitais, calculadoras, entre outros.
9. O candidato somente poderá retirar-se do local de aplicação da prova depois de transcorrido o tempo de 60 minutos da duração da prova, levando consigo o caderno de provas.
10. Mantenha silêncio e obedeça às orientações do fiscal de sala. O descumprimento destas normas poderá acarretar eliminação do certame.

BOA PROVA!

LÍNGUA PORTUGUESA

TEXTO I

"Ao verme que primeiro roeu as frias carnes do meu cadáver dedico como saudosa lembrança estas memórias póstumas. Algum tempo hesitei se devia abrir estas memórias pelo princípio ou pelo fim, isto é, se poria em primeiro lugar o meu nascimento ou a minha morte. Suposto o uso vulgar seja começar pelo nascimento, duas considerações me levaram a adotar diferente método: a primeira é que eu não sou propriamente um autor defunto, mas um defunto autor, para quem a campa foi outro berço; a segunda é que o escrito ficaria assim mais galante e mais novo."

(ASSIS, Machado de. Memórias Póstumas de Brás Cubas. Rio de Janeiro, 1881. Domínio público.)

QUESTÃO 1

Nos trechos do texto I, a ideia central é que:

A) a obra se apresenta como memórias de um defunto, que inverte a ordem convencional da narrativa ao começar pelo fim.

B) o narrador hesita porque teme revelar segredos de família.

C) a obra registra com fidelidade documental a história do Brasil do século XIX.

D) o narrador se arrepende amargamente de ter escrito o livro.

QUESTÃO 2

Com base no texto I, é correto inferir que:

A) o narrador já está morto no momento em que escreve as memórias.

B) o narrador escreveu a obra no leito de morte, ainda em vida.

C) a obra foi organizada e publicada por terceiros, após a morte do autor.

D) o narrador dedicou a obra a um amigo de infância.

QUESTÃO 3

No texto I, o emprego de palavras e expressões ultrapassa, em vários momentos, o sentido literal. Assinale a alternativa cuja explicação de sentido não está correta.

A) "as frias carnes do meu cadáver" refere-se ao próprio corpo morto do narrador.

B) "um defunto autor" inverte a ordem das palavras para ironizar a condição do narrador: um morto que escreve.

C) "saudosa lembrança" mantém o sentido denotativo de saudade, pois o narrador recorda com nostalgia a convivência que teve com o verme em vida.

D) "a campa foi outro berço" emprega "berço" em sentido figurado, como ponto de partida de uma nova existência.

QUESTÃO 4

A respeito dos recursos linguísticos dos textos I e II, analise as assertivas a seguir.

I. Em "estas memórias póstumas", o pronome demonstrativo "estas" indica proximidade, situando o livro no momento da enunciação.

II. Em "isto é, se poria em primeiro lugar o meu nascimento ou a minha morte", a locução "isto é" introduz explicação que retoma e esclarece o que foi dito antes.

III. Em "Não tive filhos, não transmiti a nenhuma criatura o legado da nossa miséria", a repetição do advérbio "não" no início das duas orações cria efeito de reforço da negação.

IV. Em "abrir estas memórias pelo princípio ou pelo fim", a conjunção "ou" introduz oração coordenada sindética adversativa.

Está correta a informação contida em:

A) I e II, apenas.

B) I, II e III, apenas.

C) II e IV, apenas.

D) III e IV, apenas.

QUESTÃO 5

Considerando os trechos do Texto I, assinale a alternativa que descreve corretamente características da narrativa apresentada.

A) a exposição de dados estatísticos para comprovar hipóteses científicas.

B) a narração ficcional em primeira pessoa, com digressões e ironia.

C) o relato jornalístico imparcial de fatos recentes do cotidiano urbano.

D) a instrução sequencial de etapas para a execução de uma tarefa prática.

TEXTO II

"Não tive filhos, não transmiti a nenhuma criatura o legado da nossa miséria."

(ASSIS, Machado de. Memórias Póstumas de Brás Cubas. Rio de Janeiro, 1881. Domínio público. Trecho final da obra.)

QUESTÃO 6

No texto II, a frase que encerra a obra expressa:

A) um encerramento irônico, em que o narrador apresenta a ausência de filhos como uma forma de não ter transmitido a outros o "legado da nossa miséria".

B) o lamento sincero e melancólico do narrador pela ausência de descendência.

C) a referência à pobreza financeira do narrador, que nada pôde deixar em herança.

D) a celebração, pelo narrador, da alegria de ter deixado herdeiros.

QUESTÃO 7

Analise as assertivas a seguir, referentes à análise linguística dos textos I e II.

I. Em "dedico como saudosa lembrança estas memórias póstumas", o verbo "dedicar" é transitivo direto e indireto, e "estas memórias póstumas" exerce a função de objeto direto.

II. Em "Suposto o uso vulgar seja começar pelo nascimento", o verbo "seja" está no presente do subjuntivo.

III. Em "Não tive filhos, não transmiti a nenhuma criatura o legado da nossa miséria", as orações estão coordenadas assindeticamente.

IV. Em "se poria em primeiro lugar o meu nascimento ou a minha morte", o verbo "poria" está no futuro do presente do indicativo.

V. Em "hesitei se devia abrir estas memórias", o verbo "devia" está no pretérito imperfeito do indicativo, em correlação com o pretérito perfeito "hesitei".

Estão corretas apenas as assertivas:

A) I e II.
B) I, II e III.
C) I, III e V.
D) I, II, III e V.

QUESTÃO 8

Nos textos I e II, os recursos expressivos contribuem para a construção dos sentidos.

Assinale a alternativa cuja identificação da figura de linguagem está incorreta:

A) Em "eu não sou propriamente um autor defunto, mas um defunto autor", ocorre um quiasmo, caracterizado pela disposição invertida das palavras "autor" e "defunto".

B) Em "o meu nascimento ou a minha morte", ocorre uma antítese, pela aproximação de palavras que expressam ideias opostas.

C) Em "Não tive filhos, não transmiti a nenhuma criatura o legado da nossa miséria", ocorre um eufemismo, pois a declaração suaviza a referência à morte do narrador.

D) Em "a campa foi outro berço", ocorre uma metáfora, pois a sepultura é apresentada como um berço, associado ao início da existência do narrador como escritor depois de morto.

QUESTÃO 9

Analise as assertivas a seguir, referentes à reescrita e à pontuação de trechos dos textos I e II.

I. A reescrita de "Não tive filhos, não transmiti a nenhuma criatura o legado da nossa miséria" como "Não tive filhos e não transmiti a nenhuma criatura o legado da nossa miséria" mantém as duas negações expressas no original.

II. Em "Algum tempo hesitei se devia abrir estas memórias pelo princípio ou pelo fim, isto é, se poria em primeiro lugar o meu nascimento ou a minha morte", as vírgulas que delimitam "isto é" assinalam o emprego de uma expressão explicativa.

III. A substituição de "adotar" por "abandonar", em "duas considerações me levaram a adotar diferente método", preserva o sentido original do trecho.

IV. A reescrita da dedicatória como "Dedico estas memórias póstumas, como saudosa lembrança, ao verme que primeiro roeu as frias carnes do meu cadáver" preserva o destinatário da dedicatória e mantém a correção gramatical.

Estão corretas apenas as assertivas:

A) I e II.
B) I e III.
C) II, III e IV.
D) I, II e IV.

QUESTÃO 10

No que se refere à redação oficial e à comunicação administrativa, assinale a alternativa correta.

A) A formalidade exige o emprego de vocabulário rebuscado e de construções sintáticas complexas, ainda que dificultem a compreensão da mensagem.

B) A concisão autoriza a exclusão de informações necessárias à compreensão do assunto, desde que resulte em um documento mais curto.

C) A impessoalidade exige que todos os verbos sejam empregados na terceira pessoa, sendo incompatível com formas como "informo" e "solicitamos".

D) A impessoalidade exige que a comunicação trate do assunto em caráter institucional, sem impressões pessoais do redator, e não impede o emprego da primeira pessoa gramatical.

MATEMÁTICA E RACIOCÍNIO LÓGICO

QUESTÃO 11

Um reservatório tem a forma de um prisma reto, com base retangular e profundidade interna de 0,60 m. Sua base é delimitada por uma faixa de largura uniforme x, situada inteiramente dentro de um retângulo externo cujos lados estão na razão 4 : 3 e cuja diagonal mede 25 m. A figura mostra a vista superior. O reservatório, inicialmente vazio, é preenchido até sua capacidade total, em 150 minutos, por três bombas idênticas. Cada bomba tem vazão nominal de 250 L/min e opera, durante todo o enchimento, com vazão efetiva igual a 80% da nominal. Não há perdas de água.

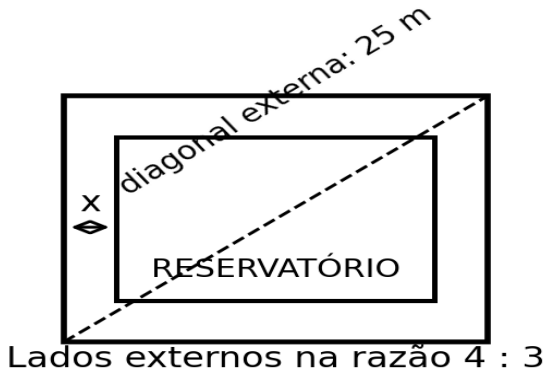

Assinale a alternativa correta para a largura x da faixa:

A) 1,25 m.
B) 5,00 m.
C) 2,50 m.
D) 7,50 m.

QUESTÃO 12

Um capital C foi aplicado à taxa de 10% ao mês, em regime de juros compostos. Ao final do segundo mês, imediatamente após o crédito dos juros desse mês, foram retirados R$ 2.100,00. O saldo restante continuou aplicado à mesma taxa, sem outras movimentações. Ao final do terceiro mês, após o crédito dos juros, o saldo era de R$ 11.000,00. A linha do tempo representa essas operações.

Julgue as assertivas como verdadeiras (V) ou falsas (F).

I. O capital inicial era de R$ 10.000,00.

II. A soma dos juros creditados nos três meses foi de R$ 3.100,00.

III. Os juros creditados no terceiro mês foram de R$ 1.210,00.

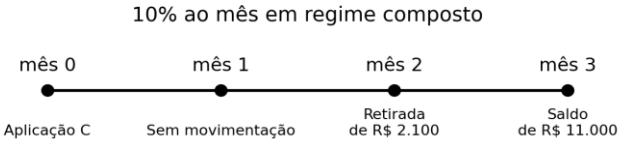

Assinale a alternativa correta quanto à sequência I, II e III:

A) V - V - F.
B) V - F - F.
C) F - V - F.
D) V - V - V.

QUESTÃO 13

Um grupo de 60 servidores foi classificado segundo a participação em duas capacitações, A e B. Os números da figura indicam as quantidades de servidores em cada região: apenas A, ambas, apenas B e nenhuma. Escolhem-se dois servidores distintos, ao acaso, de modo que todos os pares não ordenados tenham a mesma probabilidade de seleção. Considere o evento em que os dois escolhidos participaram, cada um, de pelo menos uma das capacitações e, considerando a dupla em conjunto, há pelo menos um participante de A e pelo menos um participante de B. Um mesmo servidor pode satisfazer as duas últimas exigências se tiver participado de ambas as capacitações.

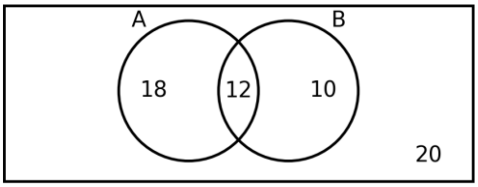

Assinale a alternativa correta para a probabilidade desse evento:

A) 26/59.
B) 97/295.
C) 47/295.
D) 29/118.

QUESTÃO 14

O gráfico representa uma função quadrática f, definida para todo x real, e informa exatamente os pontos (0, 0), (2, 12), (6, 12) e (8, 0).

Analise as assertivas:

I. O valor máximo de f é 16.

II. O conjunto dos números reais x para os quais $f(x) \geq 12$ é o intervalo fechado [2, 6].

III. Existem exatamente três números inteiros x para os quais $f(x) > 15$.

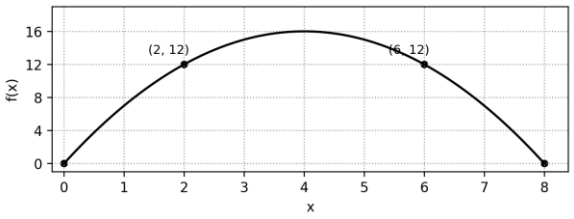

Assinale a alternativa correta:

A) Apenas I é verdadeira.

B) Apenas II e III são verdadeiras.

C) I, II e III são verdadeiras.

D) Apenas I e II são verdadeiras.

QUESTÃO 15

Cinco equipes, A, B, C, D e E, serão atendidas uma única vez, em cinco posições consecutivas. Uma ordem é admissível se, e somente se, atende simultaneamente a todas as regras abaixo.

• A é atendida antes de C.

• B é atendida imediatamente depois de D.

• E não ocupa a primeira nem a última posição.

• Exatamente uma das duas proposições seguintes é verdadeira: "C é atendida antes de D"; "E é atendida antes de C".

A figura representa as cinco posições disponíveis.

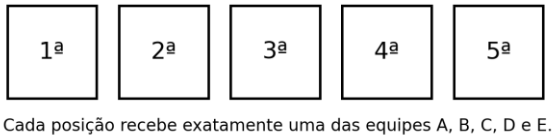

Cada posição recebe exatamente uma das equipes A, B, C, D e E.

Assinale a alternativa correta para o número de ordens admissíveis:

A) 4.

B) 6.

C) 8.

D) 5.

INFORMÁTICA

QUESTÃO 16

Um funcionário utiliza um computador com Windows 11 para elaborar documentos. Durante o trabalho, conecta um teclado novo e instala um programa de edição de textos.

Considerando os conceitos básicos de informática, assinale a alternativa correta:

A) O teclado é hardware, enquanto o editor de textos e o Windows 11 são softwares.

B) O teclado e o Windows 11 são hardwares, enquanto o editor de textos é software.

C) O teclado é software, pois envia informações ao computador, enquanto o Windows 11 é hardware.

D) O editor de textos é hardware quando instalado no computador e software quando utilizado pela internet.

QUESTÃO 17

Um servidor precisa transferir um arquivo da pasta Pendentes para a pasta Concluídos, ambas armazenadas no disco local do computador. Ele deseja que, ao final, o arquivo esteja apenas na pasta de destino.

Considerando o Explorador de Arquivos do Windows 10 e do Windows 11, assinale a alternativa correta:

A) Selecionar o arquivo, executar Copiar e, na pasta Concluídos, executar Colar**.**

B) Selecionar o arquivo, executar Renomear e substituir seu nome por Concluídos.

C) Selecionar o arquivo, executar Recortar e, na pasta Concluídos, executar Colar**.**

D) Selecionar o arquivo, executar Criar atalho e colocar o atalho na pasta Concluídos.

QUESTÃO 18

Uma equipe utiliza o Microsoft Office para elaborar relatórios, controlar despesas e apresentar resultados em reuniões.

Analise as assertivas:

I. No Word, é possível inserir uma tabela em um documento para organizar informações em linhas e colunas.

II. No Excel, a fórmula = SOMA (B2:B4) soma os valores numéricos das células B2, B3 e B4.

III. No PowerPoint, a aplicação de uma transição a um slide substitui a necessidade de salvar o arquivo da apresentação.

Assinale a alternativa correta:

A) Apenas I está correta.

B) Apenas II e III estão corretas.

C) I, II e III estão corretas.

D) Apenas I e II estão corretas.

QUESTÃO 19

Uma funcionária recebeu um arquivo por correio eletrônico e pretende disponibilizá-lo em uma pasta compartilhada na rede local do setor.

Julgue as afirmações como verdadeiras (V) ou falsas (F).

( ) Salvar o anexo recebido permite armazenar uma cópia do arquivo em uma pasta escolhida pela funcionária.

( ) Colocar o arquivo em uma pasta compartilhada concede automaticamente permissão de edição a todos os usuários da rede, independentemente das configurações de acesso.

( ) Computadores conectados a uma rede local podem compartilhar arquivos entre si mesmo sem acesso à internet, desde que a rede e as permissões estejam configuradas para isso.

Assinale a alternativa correta, que apresenta a sequência de cima para baixo.

A) V – V – F.
B) V – F – V.
C) F – V – V.
D) V – F – F.

QUESTÃO 20

Um funcionário recebeu um e-mail que solicita sua senha e ameaça bloquear sua conta caso ele não acesse imediatamente um link. O computador utilizado possui antivírus atualizado.

Considerando essa situação e as boas práticas de segurança da informação, assinale a alternativa incorreta:

A) O antivírus atualizado torna seguro informar a senha na página indicada, pois impede que terceiros utilizem as credenciais fornecidas.
B) A urgência da mensagem e a solicitação de senha por um link são sinais que justificam suspeitar de uma tentativa de phishing.
C) A solicitação deve ser verificada por um canal institucional conhecido, sem depender do link apresentado na mensagem.
D) Manter cópias de segurança dos arquivos importantes contribui para sua recuperação em caso de perda, mas não torna seguro fornecer a senha no link recebido.

CONHECIMENTOS ESPECÍFICOS

QUESTÃO 21

Um detalhe construtivo foi desenhado em CAD em tamanho real, utilizando o milímetro como unidade. Uma peça desse detalhe tem comprimento de 1.200 unidades de desenho.

Na prancha, a peça deverá aparecer com 60 mm de comprimento. Posteriormente, uma cópia dessa prancha será impressa com redução uniforme para 75% do tamanho inicialmente previsto, sem atualização dos textos de cotas.

Assinale a alternativa correta quanto à escala inicialmente prevista, ao comprimento gráfico na cópia reduzida e ao valor que deve permanecer indicado na cota da peça.

A) Escala 1:20; comprimento gráfico de 45 mm; cota de 900 mm.
B) Escala 1:20; comprimento gráfico de 45 mm; cota de 1.200 mm.
C) Escala 1:15; comprimento gráfico de 45 mm; cota de 1.200 mm.
D) Escala 1:20; comprimento gráfico de 80 mm; cota de 1.200 mm.

QUESTÃO 22

No detalhamento de uma parede, o comprimento disponível entre duas faces acabadas é de 6.200 mm. Da esquerda para a direita, o desenho prevê:

- **Trecho de parede até o primeiro vão: 750 mm.**
- **Primeiro vão: 1.200 mm.**
- **Trecho de parede entre os vãos: 900 mm.**
- **Segundo vão: 1.500 mm.**
- **Trecho final de parede: dimensão a determinar.**

Todos os valores se referem ao mesmo alinhamento horizontal e às faces acabadas. As larguras dos vãos são medidas entre suas respectivas faces laterais acabadas.

Na versão recebida para revisão, o trecho final está cotado como 1.800 mm.

Para que a cadeia de cotas seja coerente com o comprimento total, assinale a alternativa correta.

A) O trecho final deve permanecer com 1.800 mm, e a diferença de 50 mm deve ser incorporada à espessura do traço.
B) O trecho final deve ser alterado para 1.900 mm, compensando a diferença entre as dimensões parciais e a dimensão total.
C) O comprimento total deve ser alterado para 6.150 mm, mesmo que os 6.200 mm tenham sido confirmados no levantamento.
D) O trecho final deve ser alterado para 1.850 mm, mantendo as demais dimensões informadas.

QUESTÃO 23

Em um corte de projeto, a face superior de uma laje estrutural horizontal está na cota +3,200 m. A laje possui espessura de 0,140 m. Acima dela será

executado um conjunto de camadas de regularização e acabamento com espessura total de 0,060 m.
No pavimento inferior, o piso acabado está na cota +0,080 m. A face inferior acabada do forro ficará 0,120 m abaixo da face inferior da laje.
Desconsidere deformações e outras camadas.
As cotas do piso acabado superior e da face inferior acabada do forro, bem como o pé-direito livre do pavimento inferior, serão, respectivamente:
A) +3,260 m; +2,940 m; 2,860 m.
B) +3,260 m; +3,080 m; 3,000 m.
C) +3,200 m; +2,940 m; 2,860 m.
D) +3,260 m; +2,940 m; 2,940 m.

QUESTÃO 24
Um desenhista deve representar uma abertura na laje de um pavimento. Na planta, a abertura fica acima de um ambiente do pavimento inferior. Na mesma prancha haverá um corte que atravessa essa abertura.
A legenda do projeto estabelece convenções distintas para elementos cortados, elementos visíveis além do plano de corte e projeções superiores.
Analise as assertivas.
I. A representação de um elemento como cortado depende de sua relação com o plano de corte da vista, e não apenas do material de que ele é constituído.
II. Uma linha representada como projeção superior em determinada planta deve, obrigatoriamente, conservar essa classificação gráfica em todos os cortes e fachadas.
III. A indicação de corte na planta deve permitir relacionar sua posição e seu sentido de observação à vista correspondente.
IV. A existência de um detalhe ampliado dispensa a identificação de sua localização no conjunto do projeto, desde que a escala do detalhe esteja indicada.
Assinale a alternativa correta:
A) Apenas as assertivas I e II estão corretas.
B) Apenas as assertivas II e IV estão corretas.
C) Apenas as assertivas I e III estão corretas.
D) Apenas as assertivas I, III e IV estão corretas.

QUESTÃO 25
Dois arquivos CAD representam partes de um mesmo empreendimento. O arquivo de arquitetura utiliza o metro como unidade de desenho; o arquivo de instalações utiliza o milímetro. Ambos representam a geometria em tamanho real e compartilham a mesma origem física e a mesma orientação dos eixos.
Ao inserir o arquivo de instalações no arquivo de arquitetura, não ocorre conversão automática de unidades. Um segmento que representa uma tubulação de 2 m passa a ocupar 2.000 unidades no arquivo de arquitetura.
Considerando que a inserção será realizada na origem comum, sem rotação, assinale a alternativa correta
A) Aplicar fator uniforme de inserção igual a 0,001, de modo que o segmento passe a medir 2 unidades no arquivo de arquitetura.
B) Aplicar fator uniforme de inserção igual a 1.000, de modo que as unidades dos dois arquivos se tornem equivalentes.
C) Manter o fator de inserção igual a 1 e alterar apenas a escala de impressão da prancha de arquitetura.
D) Manter a geometria inserida e substituir o texto da cota de 2.000 por 2, corrigindo a incompatibilidade entre os arquivos.

QUESTÃO 26
Durante a compatibilização de projetos, identifica-se que uma tubulação atravessa uma viga em local onde o projeto estrutural não prevê abertura. O desenho de instalações foi emitido depois do desenho estrutural, mas não há registro de análise ou aprovação dessa interferência.
Sobre as providências de coordenação e revisão, assinale a alternativa incorreta
A) A interferência deve ser registrada com localização suficiente para permitir sua identificação pelas disciplinas envolvidas.
B) A solução pode exigir alteração do percurso da tubulação ou uma solução estrutural específica, a ser definida e validada pelos responsáveis competentes.
C) A solução aprovada deve ser incorporada aos documentos afetados, com controle das revisões disponibilizadas para execução.
D) A emissão posterior do desenho de instalações autoriza a execução da abertura, pois a ordem cronológica dos arquivos determina a prevalência técnica entre disciplinas.

QUESTÃO 27
Uma equipe desenvolve o projeto de uma edificação desde a avaliação das alternativas iniciais até a emissão dos documentos destinados à execução.

Julgue as afirmações como verdadeiras (V) ou falsas (F).

( ) Nos estudos preliminares, podem ser comparadas alternativas de organização dos espaços e implantação, considerando condicionantes e necessidades do empreendimento.

( ) A presença de plantas, cortes e fachadas em um anteprojeto comprova, por si só, que todas as definições necessárias à execução da obra estão resolvidas.

( ) O projeto executivo deve apresentar informações suficientemente definidas e coordenadas para orientar a execução, conforme o escopo contratado.

( ) A ampliação de um desenho de escala 1:100 para 1:20 acrescenta automaticamente as informações construtivas necessárias a um detalhe executivo.

Assinale a alternativa que apresenta a sequência correta, na ordem das afirmações.

A) V – V – F – F.
B) V – F – V – F.
C) F – V – V – F.
D) V – F – F – V.

QUESTÃO 28

Para elaborar o projeto de reforma de um ambiente, um desenhista recebe o levantamento das quatro paredes internas. Os comprimentos informados são compatíveis, dois a dois, com os lados de um retângulo. Entretanto, não foram medidos os ângulos nem as diagonais.

O projeto prevê a instalação de um conjunto rígido de mobiliário junto a duas paredes adjacentes, com encontro em ângulo reto e pequenas folgas de montagem.

Assinale a alternativa correta

A) A igualdade dos lados opostos comprova a existência de quatro ângulos retos, sendo suficiente para liberar o detalhamento definitivo.

B) A hipótese de esquadro deve ser verificada por medições complementares, pois os comprimentos dos lados, isoladamente, não comprovam a geometria retangular.

C) A ortogonalidade deve ser imposta no CAD, pois o comando de desenho ortogonal corrige as possíveis irregularidades da edificação existente.

D) As folgas de montagem podem ser distribuídas igualmente entre as extremidades do mobiliário, dispensando a verificação dos ângulos das paredes.

QUESTÃO 29

Durante a execução de uma obra, um trecho de instalação foi deslocado em relação ao projeto originalmente emitido. A alteração foi aprovada pelos responsáveis técnicos e executada. O desenhista recebe a solicitação de atualizar a documentação conforme construído.

Analise as assertivas.

I. A atualização deve representar a situação efetivamente executada e verificada, incluindo as informações necessárias à identificação do trecho alterado.

II. A aprovação da alteração dispensa a conferência de sua execução, pois a solução autorizada e a solução construída são necessariamente idênticas.

III. A revisão deve alcançar os desenhos e detalhes afetados, evitando a permanência de informações contraditórias no conjunto documental.

IV. A versão original deve ser apagada do histórico, pois sua preservação impede a identificação da revisão vigente.

Assinale a alternativa correta:

A) Apenas as assertivas I e II estão corretas.
B) Apenas as assertivas II e IV estão corretas.
C) Apenas as assertivas I e III estão corretas.
D) Apenas as assertivas I, III e IV estão corretas.

QUESTÃO 30

Uma abertura deve manter largura livre acabada de 900 mm. O detalhe inicialmente aprovado prevê revestimento com espessura total de 15 mm em cada uma das duas faces laterais do vão, incluindo todas as camadas aplicadas sobre o substrato.

Antes da execução da abertura, o sistema de revestimento é substituído por outro com espessura total de 22 mm em cada face lateral. A largura livre acabada deve permanecer inalterada.

Quanto à revisão do detalhe e à largura do vão entre substratos, assinale a alternativa correta

A) O vão deve passar de 930 mm para 944 mm, com atualização das cotas e da especificação do sistema de revestimento.

B) O vão deve permanecer com 930 mm, pois a alteração do revestimento afeta somente a especificação, sem repercussão dimensional.

C) O vão deve passar de 930 mm para 937 mm, acrescentando-se a diferença entre as espessuras dos dois sistemas.

D) O vão deve passar de 930 mm para 916 mm, compensando o aumento da espessura de revestimento nas duas faces.